Date: _____

MATHÉMATIQUES _ Géométrie

Les angles droits

1 Trouve les angles droits et marque-les d'un petit carré rouge.



2 Marque les angles droits d'un petit carré rouge puis complète les phrases.

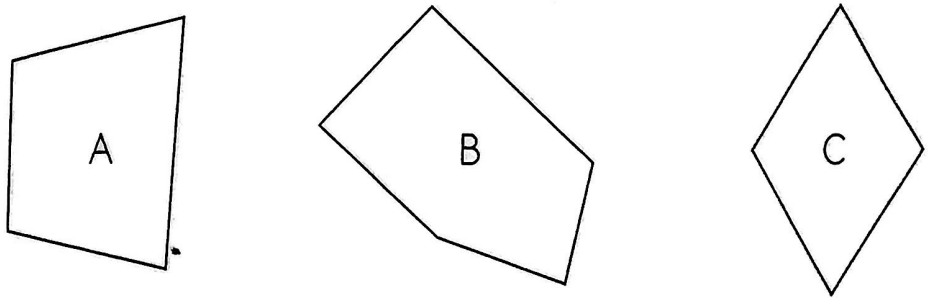

La figure A a ..... angle droit.

La figure B a ..... angles droits.

La figure C a ..... angle droit.

3 Trouve les angles droits et marque-les en rouge.

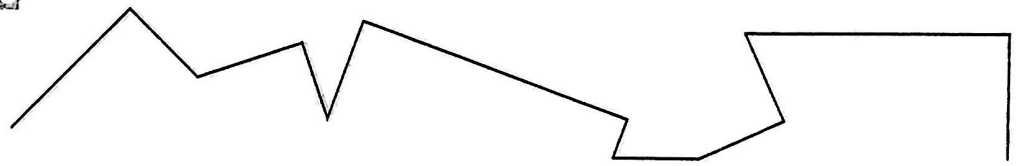

4 Trouve tous les angles droits et marque-les en rouge.

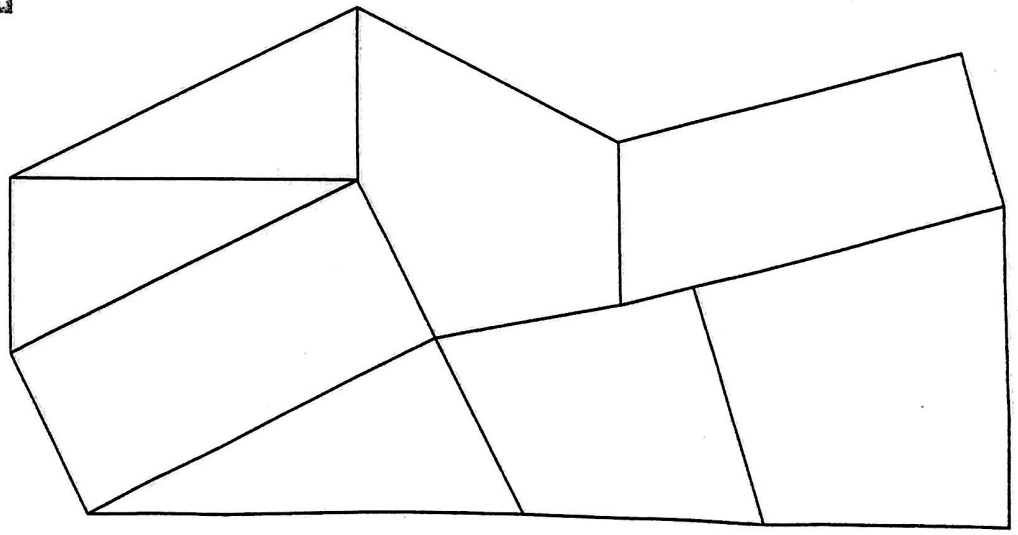

Complète.

15+15+15= 3x 15

10+10+10+10=.....x.....

30+30+30+30+30+30=.....x.....

16+16+16+16+16+16+16+16=.....x.....