Meeuree CM1

...../...../.....

PRÉNOM : .....

https://laclassebleue.fr/

① **Calcule le périmètre** de ces figures.



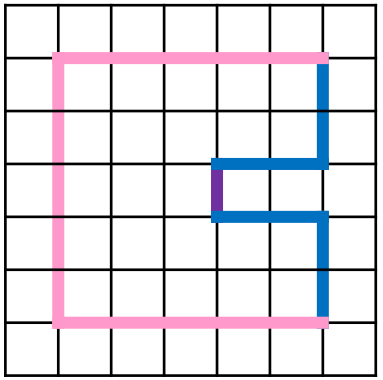

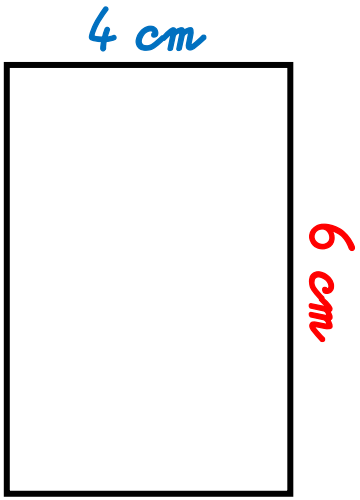

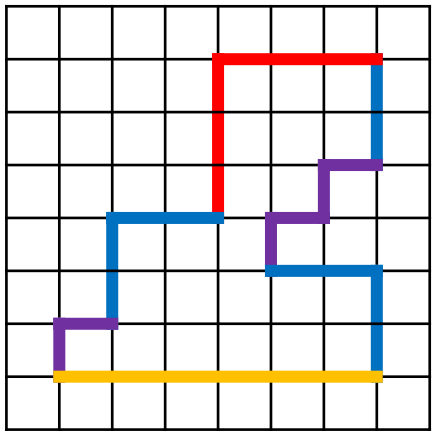

$P = 4 \times 4$
$P = 16$ cm

$P = (5 \times 3) + (2 \times 4) + 1$
$P = 24$ carreaux

$P = (6 + 4) \times 2$
$P = 20$ cm

$P = 6 + (3 \times 2) + (2 \times 5) + 6$
$P = 28$ carreaux

② **Résous** ce problème **dans ton cahier**.

Mr Leteneur entoure d'une clôture grillagée un terrain de 31 m de longueur et 14 m de largeur. Il laisse une ouverture de 3 m.

Quelle sera la longueur de sa clôture ?

③ Dans ton cahier, **trace deux rectangles différents** ayant pour **périmètre 20 carreaux** !