Correction Mathématiques semaine du 8 au 12 juin

Ne pas imprimer

Calcul mental : cf fiche de consignes

89 Addition d'un nombre à 2 chiffres et d'un nombre à 1 chiffre

Calcul mental
- Compteur (le résultat est le seul support visuel)
- Vingt + trente (somme ≤ 70)

Un nouveau groupe de dix ou non ?

21 + 8 — Pas de nouveau groupe de dix.

24 + 6 — Un nouveau groupe de dix.

25 + 7 — Un nouveau groupe de dix et...

21 + 8 = 29 | 24 + 6 = 30 | 25 + 7 = 32

Calcule comme Picbille. (Imagine les groupes de dix et les jetons isolés.)

35 + 3 = 38 | 26 + 4 = 30 | 35 + 6 = 41
12 + 4 = 16 | 15 + 5 = 20 | 17 + 7 = 24
41 + 8 = 49 | 12 + 8 = 20 | 28 + 5 = 33

A

Imagine les dizaines et les unités. Si tu n'es pas sûr(e), dessine.

Un nouveau groupe de dix ou non ?

45 + 6 = 51 | 31 + 6 = 37 | 63 + 7 = 70
25 + 4 = 29 | 53 + 9 = 62 | 31 + 4 = 35

B

Imagine...

24 + 30 = 54
19 + 20 = 39
68 + 10 = 78
17 + 50 = 67

C

Dessine avec le moins de billets et de pièces possible.

79 €

20€ 20€ 20€ 10€ 5€ 2€ 2€

D

90 Les moitiés (cas des nombres jusqu'à 20)

Calcul mental
- Groupes de 2, 5 et 10

Picbille a partagé **10** jetons entre Louis et Amina. **Vérifie.**

Je n'ai plus de jetons. — J'ai 5 jetons. — Moi aussi, j'ai 5 jetons.

Vérifie le premier partage, **écris** la valeur des parts. **Fais** les suivants.

12 jetons	6 jetons	6 jetons
14 jetons	7 jetons	7 jetons
16 jetons	8 jetons	8 jetons
18 jetons	9 jetons	9 jetons
20 jetons	10 jetons	10 jetons

A

Écris dans les nuages.

20 31 39 45

Écris la table des moitiés.

2 = 1 + 1	4 = 2 + 2	6 = 3 + 3	8 = 4 + 4	10 = 5 + 5
12 = 6 + 6	14 = 7 + 7	16 = 8 + 8	18 = 9 + 9	20 = 10 + 10

B

Imagine les dizaines et les unités. Si tu n'es pas sûr(e), dessine.

34 + 30 = 64 | 25 + 10 = 35 | 13 + 40 = 53
26 + 20 = 46 | 19 + 50 = 69 | 32 + 40 = 72

C

Imagine les dizaines et les unités. Si tu n'es pas sûr(e), dessine.

Un nouveau groupe de dix ou non ?

15 + 5 = 20 | 32 + 7 = 39 | 52 + 8 = 60
36 + 9 = 45 | 43 + 8 = 51 | 73 + 5 = 78

D

a. Complète. Il y a 8 pots mais il n'y a que 5 couvercles.

b. Écris, interprète et **calcule** la soustraction. 8 – 5 = 3

c. Vérifie (**relie** et **entoure**) et **écris** une « phrase solution ».

3 pots n'auront pas de couvercle.

E

56 61 71 76

F

91 Plus grand que, plus petit que, égal à

Calcul mental
- Groupes de 2, 5 et 10
- Soustractions du type 10 – *n*

Observe, tu vas apprendre à utiliser les signes > (plus grand que) et < (plus petit que).



10 < 7 + 4



10 < 7 + 4

Le crocodile mange des poissons. Il choisit toujours le plus grand nombre de poissons.



9 > 2 + 6



9 > 2 + 6

A

Place le signe qui convient : =, < ou >.

3 + 6 < 10 | 7 = 10 – 3 | 9 + 7 > 14
13 > 9 + 3 | 5 + 8 < 15 | 5 = 9 – 4

Place le signe qui convient : =, < ou >.

48 < 10 + 10 + 10 + 10 + 10 | 30 + 8 = 10 + 10 + 10 + 8
10 + 10 + 10 + 10 > 39 | 41 > 10 + 10 + 10 + 10
vingt + *vingt* = 10 + 10 + 10 + 10 | 23 + 20 < 45

B

Imagine les dizaines et les unités. Si tu n'es pas sûr(e), dessine.

15 + 7 = 22 | 27 + 7 = 34 | 62 + 8 = 70
36 + 3 = 39 | 54 + 8 = 62 | 42 + 5 = 47

C

Écris la table des moitiés après 10.

12 = 6 + 6 | 14 = 7 + 7 | 16 = 8 + 8 | 18 = 9 + 9 | 20 = 10 + 10

D

Prénom : **Date :**

Place le signe qui convient : =, < ou >

13 = 8 + 5 | 9 + 7 < 17 | 8 + 8 > 15
10 – 7 > 2 | 14 < 8 + 7 | 12 = 6 + 6
3 = 6 – 3 | 6 > 10 – 5 | 13 > 5 + 7

10 + 10 + 10 + 10 > 39 | 40 + 10 + 8 < 60
40 + 5 = 10 + 10 + 10 + 10 + 5 | 50 = 10 + 10 + 10 + 10 + 10
48 < 10 + 10 + 10 + 10 + 10 | 64 + 5 < 70