Le temps de la République

1 – Comment la république s'est-elle construite ?

Je me repère :

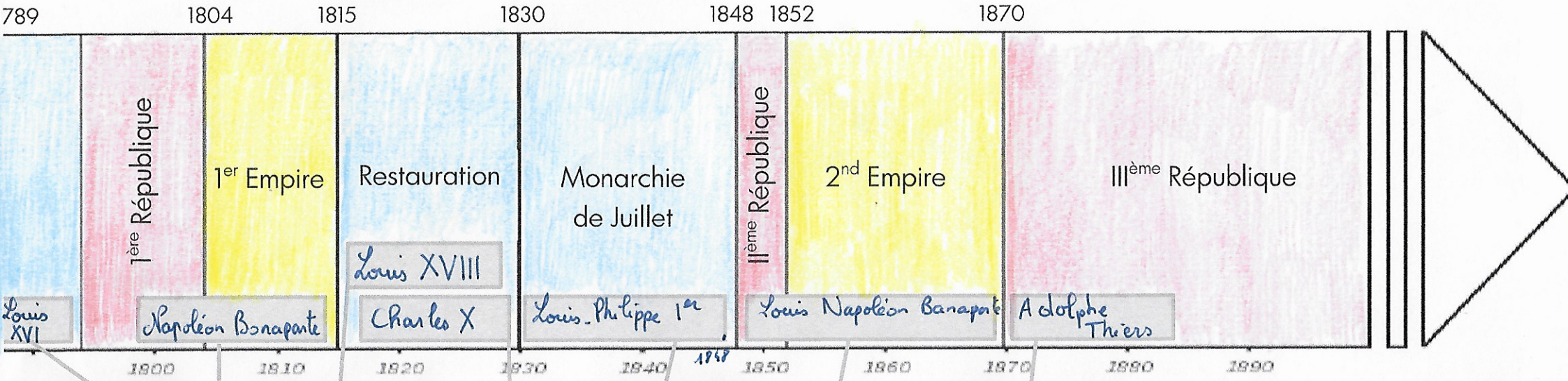



s'enfuit en Angleterre



Complète la frise chronologique

1. Complète le nom des chefs d'état dans les cadres.

2. Colorie en jaune les périodes où la France a été un empire, en bleu la période pendant laquelle elle a été une monarchie et en rouge les périodes pendant laquelle elle a été une république.